Enigmes du 30 mars au 2 avril

**Enigme du lundi 30 mars**

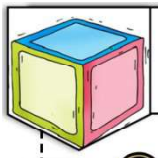

Frida a fait une figure avec ses cubes.
Combien de cubes a-t-elle utilisés ?



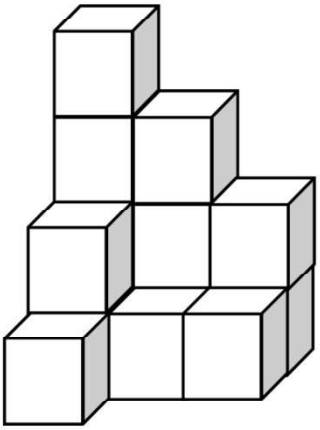

**Enigme du mardi 31 mars**



Gavroche n'arrive pas à trouver le nombre manquant de sa ruche. Aide-le à trouver la règle et écris le nombre.

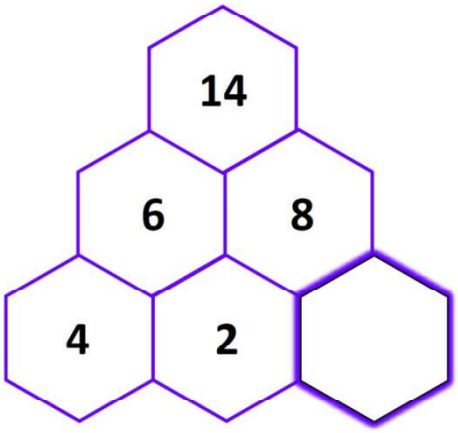


**Enigme du jeudi 2 avril**
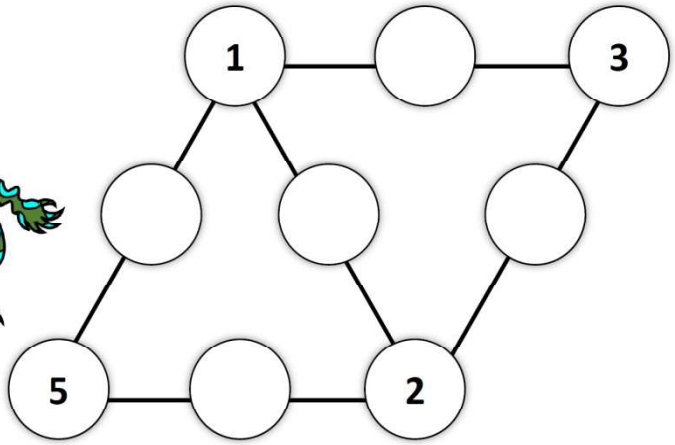
Aide Aldo à compléter sa forme. La somme de chaque ligne tracée doit être 12.